الهندسة (صامد جدا)

بالتوفيق

لابد من معرفة ثلاثة أنواع

① المستقيمان المتقاطعان مثل السبتطيل
② المتعامدان مثل المربع أو المثلث القائم ⊥
③ المستقيمان المتوازيان مثل قضيب القطار //

الشرح



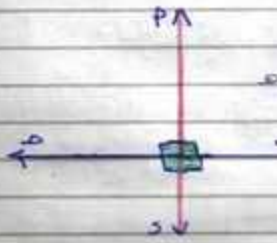
① المستقيمان المتقاطعان

هما مستقيمان اشتركا في نقطة تقاطع كما بالشكل
« ولا ينتج عنها زاوية قائمة »
ينتج عنها زوايا مختلفة ليست بزاوية قائمة



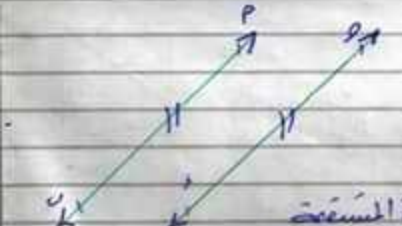
② المستقيمان المتعامدان

علامتها (⊥) هما مستقيمان متعامدان
وينتج عنها أربع زوايا قائمة أو زاوية واحدة قائمة
مثال لتقريب القدم العمود داخل الشقة عمودي



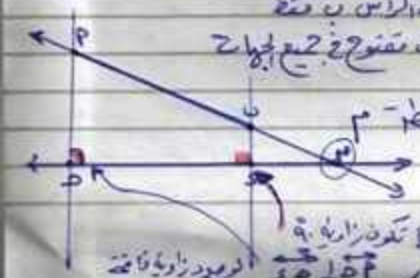
③ المستقيمان المتوازيان (//)

بعلامة (//)
هما مستقيمان متوازيان وغير متقاطعان
مثال شريط القطار



* ملحوظة هامة جدا $\overline{P ب}$ تسمى القطعة المستقيمة
أي محدودة من الرأس P وحتى الرأس ب فقط

أما هذا الشكل $\overleftrightarrow{P ب}$ تسمى المستقيم P ب أي تمتد في جميع الجهات



لأن نقول P ب تشترك مع ه د في النقطة م

هام جدا

أذا P ب تقاطع مع ه د في النقطة م

$\overleftrightarrow{ك ب} \perp \overleftrightarrow{ه د}$ (⊥) عمودان لأنها تكون زاوية ٩٠°

$\overleftrightarrow{ب ي} // \overleftrightarrow{P ه}$ (//) لأنهما غير متشركتان كشريط القطار

العمود زاوية قائمة


الورقة الأولى

المثلث عرف المثلث

هو ده ثلوث رؤوس ، وثلاث أضلاع وثلاث زوايا ،

وهم كالتالي


① له ثلاث رؤوس



شرح المخ لسهولة وحفظ

② له ثلاث أضلاع

③ له ثلاث زوايا



نستنتج الآن أن المثلث هو (مضلع ثلاث أضلاع)

« له ثلاث رؤوس وثلاث أضلاع وثلاث زوايا »

ملحوظات هامة جداً جداً

١- مجموع زوايا المثلث = ١٨٠°

٢- حينما يأخذ زاوية قائمة تكون باقي الزاويتين « حادتين »

لأن الزاوية القائمة + مجموع الزاويتين « حادتين » = ١٨٠ درجة

٣- كذلك الزاوية المنفرجة تكون باقي الزاويتين « حادتين »

٤- من الممكن أن تكون الثلاث زوايا حاده مثال م = ٦٠° ب = ٦٠° ه = ٦٠°

مجموع = ١٨٠ درجة أو م = ٥٥° ب = ٤٥° ه = ٨٠° مجموع = ١٨٠°

ما هي أنواع المثلث

أنواع المثلث في الورقة السابقة ← الورقة الرابعة

ملحوظة هامة جداً

ضع علامة (✓) أو (✗)

قياس ضلعين وزاويته

يمكن رسم بمعلوميته (بعد معرفة) محصورة بينهما (✓)

مثال طول أ ب = ٣ سم ، ب جـ = ٤ سم وزاوية ب = ٩٠ درجة

ارسم المثلث ثم الإجابة على الآتي

① قياس جـ أ

② محيط المثلث

③ نوع المثلث بالنسبة لقياس زواياه

④ " " بالنسبة لأطوال أضلاعه

بالرسم نجد أنه جـ أ = ٥ سم

محيط المثلث = أ ب + ب جـ + جـ أ = ٣ + ٤ + ٥ = ١٢ سم

نوع المثلث لزواياه = قائم الزاوية

" " لأطوال أضلاعه = مختلف الأضلاع

---

* نستنتج أن المثلث يمكن رسمه بمعرفتنا الآتي

① ضلعين وزاويته (✓) هام جداً

② أو زاويتين وضلع (✓)

المفسر الثاني بالمثلث زاويتين وضلع كالتالي

زاوية ب = ٤٥ درجة ، زاوية جـ = ٤٥ درجة

مع العلم ب جـ = ٣ سم

بمعلوميته زاويتين وضلع أوجد بالقياس أ ب ، وكذلك قياس جـ أ ، وكذلك قياس زاوية أ

زاوية أ = ٩٠ لأن مجموع زوايا المثلث ١٨٠ درجة = أ + ب + جـ = ٩٠ + ٤٥ + ٤٥

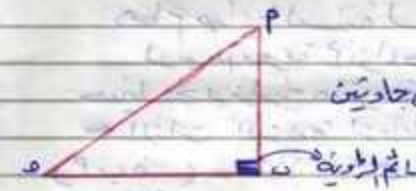
وتطرح (ب + جـ) من ١٨٠ لتجد أ = ٩٠ درجة

الورقة الثانية


المثلث نوعان

① بالنسبة لزواياه ② بالنسبة لأطوال أضلاعه

أولاً: بالنسبة لزواياه



١- قائم الزاوية
يكون فيه زاوية قائمة والزاويتين الأخريتين حادتين



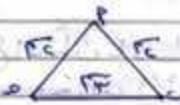
٢- منفرج الزاوية
يكون أحد زاويه فيه منفرجه وباقى الزاويتين
الأخريتين حادتين



٣- حاد الزوايا
جميع زواياه حاده أقل من ٩٠°

ثانياً: بالنسبة لأطوال أضلاعه

١- مختلف الأضلاع ... تكون فيه أضلاعه مختلفه ٢ب ≠ ٢ء ≠ ٢ه ≠ ٢ب
٢- متساوى الأضلاع ... متساويه ٢ب = ٢ء = ٢ه = ٢ب
٣- متساوى الساقين ... ضلعين متساويين والثالث مختلف ٢ب = ٢ه ≠ ٢ء
ه ≠ ٢ء .



ملاحظات هامة

- المثلث ليس له أقطار داخلية (سيتم توضيحها فى المضلعات)
- مجموع زوايا المثلث الداخلية = الزاوية المستقيمة = ١٨٠ درجة
- حينما يتعذر الصياغة فى حل المسائل ارسم العمود ... يعنى أنه يتبع عند مثلث قائم أى أنه مثلث قائم الزاوية
- لابد من معرفة جيدة وحفظ أنواع المثلث بالنسبة لزواياه وبالنسبة لأطوال أضلاعه

مطلوب فى كل سؤال تعليلات

الورقة الثالثة

اشكال مختلفة مع تحديد أنواعها بالنسبة لزواياها أو أطوال أضلاعها
أو بهما معاً [illegible]

هام جداً بالنسبة لسؤال المثلث دائماً
لابد من معرفة أنواعه
حيطا نجد زاوية منفرجة نقول
← المثلث بالنسبة لزواياه نوعه منفرج الزاوية لأنه به زاوية
(أ ب ﺟ) = ١٢٠° [illegible]
المثلث
← بالنسبة لأطوال أضلاعه على حسب قياسات أطوال أضلاعه
مختلف الأضلاع حينما تكون الأطوال مختلفة
أو نقول متساوى الأضلاع ـ ـ ـ متساوية
أو نقول متساوى الساقين ـ ـ ـ متساوية الساقين والثالث مختلف

بالتوضيح

مثال ∆ أ ب ﺟ فيه أ ب = ٣٥ ، ب ﺟ = ٣٢ ، ﺟ أ = ٤٢
زاوية أ ب ﺟ = ٩٠ درجة ؟
أذكر نوع المثلث بالنسبة لزواياه
ـ ـ ـ بالنسبة لأطوال أضلاعه
الإجابة تبسط بالنظر للمعطيات والزاوية
أولاً نوع المثلث بالنسبة لزواياه؟ الحل
المثلث أ ب ﺟ ∠ قائم الزاوية لأن الزاوية أ ب ﺟ = ٩٠ درجة



ثانياً نوع المثلث بالنسبة لأطوال أضلاعه
« مختلف الأضلاع »

قاعدة هامة
مجموع أى شكل = مجموع أطوال أضلاعه
عندما يطلب قياس أحد الزوايا نجمع الزاويتين الأخريين ونطرحهم من ١٨٠
مثال زاوية أ = ٨٠ ، زاوية ﺟ = ٦٠ أوجد زاوية ب
مجموع قياس زوايا المثلث = ١٨٠ أذن ١٨٠ - (٦٠ + ٨٠) = ١٨٠ - ١٤٠
أذن زاوية ب = ٤٠

المضلعات «حفظ تام وهام جداً»

كلمة مضلع أي له أضلاع يمكن قياسها وليست منحنى مغلق أو منحنى مفتوح

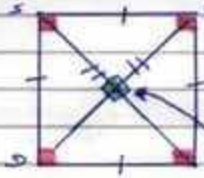
المربع: هام جداً موضح بالرسم للتسهيل

هو مضلع رباعي الشكل متساوي في الطول وله 4 زوايا متساوية في القياس كل زاوية = 90° وله قطران متعامدان وينصف كل منهما الآخر



- يعتبر المربع بأنه كل ضلعين متجاورين متساويين في الطول
- كل ضلعين متقابلين متوازيين ومتساويين

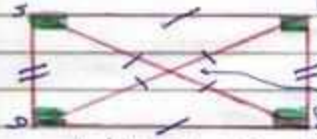
وزي شكل توضيحي حاجة كدا بالشكل ←



المربع هو مضلع رباعي الشكل
له 4 زوايا قائمة = 90°
وله قطران متساويان في الطول وينصف كل منهما الآخر ومتعامدان (ينتج زوايا قائمة = 90°)

المستطيل

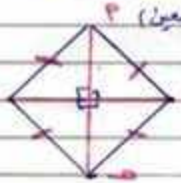
هو مضلع رباعي الشكل فيه
كل ضلعين متقابلين متوازيين ومتساويين
له 4 زوايا قوائم كل زاوية = 90°
القطران متساويان وغير متعامدان لا ينتج منهما زوايا قائمة
ينصف كل منهما الآخر



لا ينتج منهما زوايا قائمة لأنها غير (متعامدان متقاطعان فقط)

المعين

(شكل تقريبي للمعين)



هو مضلع رباعي الشكل فيه
- جميع أضلاعه متساوية مثل المربع
- زواياه ليست قائمة
- الأقطار غير متساوية وتنصف كل منهما الآخر

فيه كل ضلعين متقابلين متوازيين ومتساويين

المعين مثل المربع ولكن تختلف عنه زواياه ليست قوائم وأيضاً الأقطار غير متساوية

الأقطار تنصف كل منهما الآخر ومتعامدان

كل ضلعين متقابلين متوازيين ومتساويين في الطول

الورقة الثالثة وضلاح

أوجد الفرق بين المربع والمستطيل والمعين ومتوازي الأضلاع من حيث

الأقطار في الطول ، الزوايا الداخلية ، الأضلاع

	المربع	المستطيل	المعين	متوازي الأضلاع
	رباعي الشكل	رباعي الشكل	رباعي الشكل	رباعي الشكل
الأقطار في الطول	متساوية	متساوية	غير متساوية	غير متساوية
الزوايا الداخلية	زواياه قائمة	زواياه قائمة	زواياه حاد وحاد وغير قائمة	
أضلاعه	متساوية الأطوال	غير متساوية	متساوية الأطوال (أضلاعه مثل المربع)	(أضلاعه مثل المستطيل)
		فيه كل ضلعين متقابلين متوازيين ومتساويين		

صفاتها

جميع الأشكال الأربعة متساوية في الطول

كل ضلعين متقابلين متوازيين ومتساويين

بالتوفيق